TRABAJO DE REPASO DE LA 3ª EVALUACIÓN

Hola a todos, como os dijimos os proponemos unos ejercicios para repasar los contenidos más importantes de la 3ª evaluación.

Como siempre, tenéis que hacerlos en el cuaderno, copiando los enunciados y de la forma más limpia posible.

La fecha tope de entrega es el día 8 de Junio

Este trabajo también será útil para los alumnos con la 3ª evaluación suspensa porque, como podéis ver, son similares a los del examen. Si sabéis hacer éstos, aprobaréis el examen sin problema.

Debido a que estamos en período de exámenes en 2º Bachillerato no habrá clase on line esta semana. De todas formas son muy facilitos, No obstante si los suspensos (o el resto) tenéis dudas para resolver estos ejercicios debéis poneros en contacto por email con las profes para solicitar ayuda.

Raquel Ballesta: rballestagarcia@hotmail.com

Teresa Casquero: teresacasquerosanchez@gmail.com

Ejercicios Fecha entrega 8/5/2020

1.- Los catetos de un triángulo rectángulo miden 12 cm y 8 cm.

a. Calcula el valor de la hipotenusa utilizando el teorema de Pitágoras.
b. Halla su perímetro y su área.

2.- Calcula el perímetro y el área de cada uno de los siguientes paralelogramos:

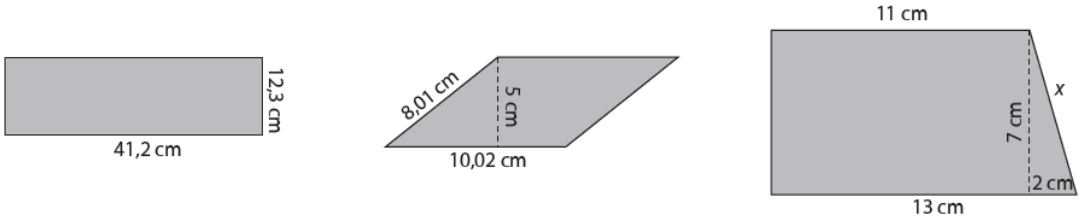

3.- La gráfica representa la velocidad de un coche antiguo durante los 30 primeros minutos.
a) ¿Con qué velocidad salió?
b) Cuánto tiempo tardó hasta alcanzar los 80 km/h?
c) Qué velocidad tenía a los 25 minuto

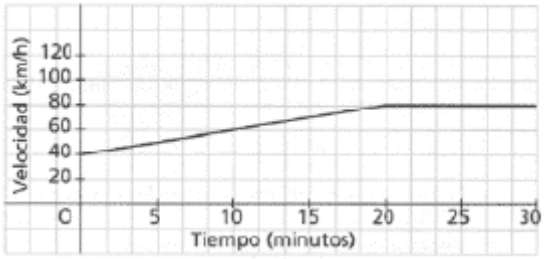

4.- Representa las siguiente funciones:

a) y = 3x + 2
b) y = -2x +4

5.- La talla en cm de doce patinadoras de un equipo de patinaje artístico es: 167, 172, 169, 150, 162, 155, 157, 153, 164, 153, 170, 167
Elabora una tabla de frecuencias indicando: variable, frecuencia absoluta y frecuencia relativa

6.- Calcula el área y el perímetro de la siguiente figura

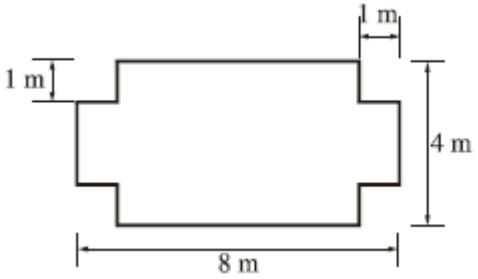
1 m
1 m
4 m
8 m