CENTRO EDUCATIVO VILLA DE ALCORCON **3º ESO**
CURSO ESCOLAR: 2019- 2020

TRABAJO TEMA 12
CONFINAMIENTO

- Entregado a los alumnos el lunes 27 de Abril de 2020
- Fecha de entrega por parte de los alumnos: 27 de Abril de 2020
- Forma de entrega: mail rmgarciadelacruz@hotmail.com

1- Representa:
   a) Y = 5x
   b) Y= -2x+3
   c) Y= 1
   d) Y= $2x^2$
   e) Y= x^2 - 6x + 9

2- Halla la ecuación de la recta que pasa por A (3; -1) y B(-2; 4)

3- Halla la ecuación de la recta que pasa por A(1; -2) y cuya pendiente m= -3

4- Halla las ecuaciones

A)

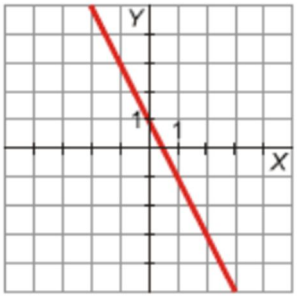

B)

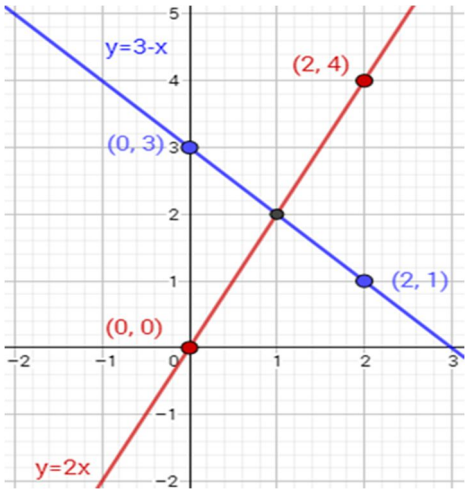

C)

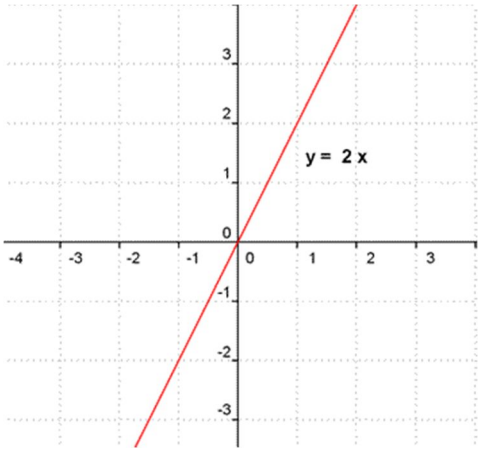
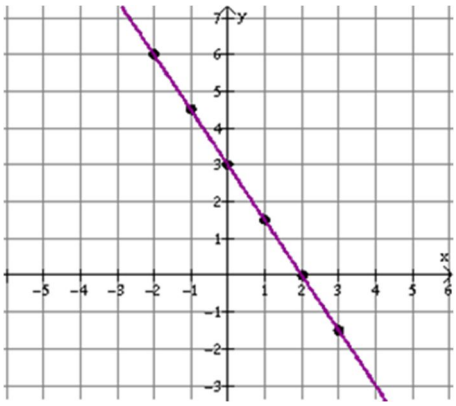
D)